长方形与正方形

姓名：_____ 日期：_____

根据图中边长列式计算，答案写上正确单位。

1. 一个正方形的边长是20厘米，求它的面积。



2. 一个正方形的边长是17厘米，求它的周长。



3. 一个正方形的边长是16厘米，求它的周长。



4. 一个正方形的边长是4厘米，求它的周长。



5. 一个正方形的边长是5厘米，求它的周长。



6. 一个长方形长2厘米、宽18厘米，求它的面积。



长方形与正方形

参考答案

1. 一个正方形的边长是20厘米，求它的面积。

   20 × 20 = 400 平方厘米

   400 平方厘米

2. 一个正方形的边长是17厘米，求它的周长。

   4 × 17 = 68 厘米

   68 厘米

3. 一个正方形的边长是16厘米，求它的周长。

   4 × 16 = 64 厘米

   64 厘米

4. 一个正方形的边长是4厘米，求它的周长。

   4 × 4 = 16 厘米

   16 厘米

5. 一个正方形的边长是5厘米，求它的周长。

   4 × 5 = 20 厘米

   20 厘米

6. 一个长方形长2厘米、宽18厘米，求它的面积。

   2 × 18 = 36 平方厘米

   36 平方厘米